Cognome.....data.....cl.2^C

ESERCIZI

1. Quale numero corrisponde a 2 decine? Cerchialo

2 02 20 202 10

2. Con quale operazione calcoli il numero di rettangoli grigi? Cerchiala

4 + 3=
7 – 4=
7 – 3 =
3 + 4 =

3. Con quale operazione calcoli il numero di rettangoli bianchi? Cerchiala

5 – 3 =
5 – 2 =
3 + 2 =
2 + 3 =

4.Con quale operazione calcoli il numero dei vasetti chiusi? Cerchiala



7 – 4 = 4 + 3 = 3 + 4 = 7 – 3 =

5. Con quale operazione calcoli quanti oggetti non sono sul tavolo? Cerchiala

7 – 2 = 5 + 2 = 7 – 5 = 2+5 =



6. Con quale operazione calcoli quante matite non ci sono nello zaino?
Cerchiala 12 + 8 = 8 + 12 = 20 – 8 = 20 - 12=

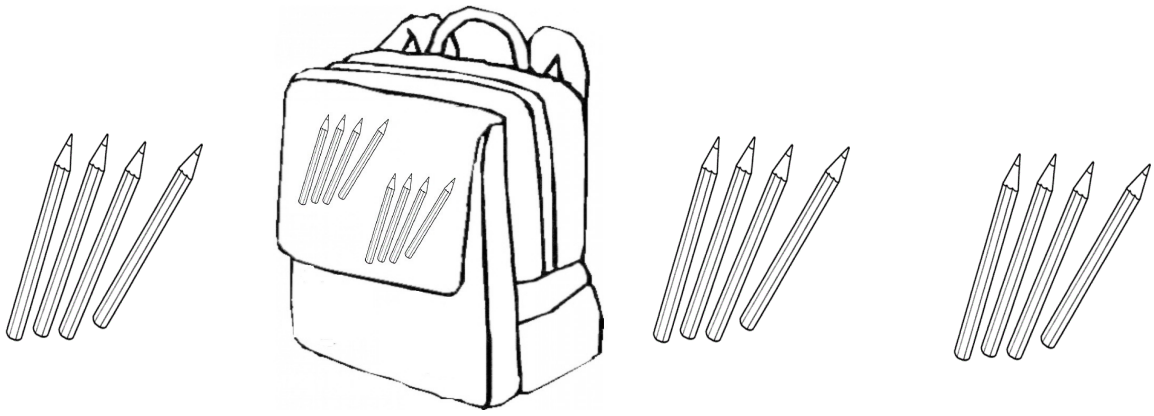

7.In quale gruppo i numeri sono stati scritti in ordine dal maggiore al minore? Colora il riquadro

34	**35**	**44**
42	**36**	**16**

15	**6**	**4**
34	**43**	**53**

8. Con quale operazione calcoli quante mele non ci sono sull'albero? Cerchiala

6 + 3 =
3 + 6 =
9 – 6 =
9 – 3 =



9. Osserva e rispondi



Con quale operazione calcoli l'insieme delle bibite e dei gelati?.....
Con quale operazione calcoli il numero di gelati?.....
Con quale operazione calcoli il numero di bibite?.....