Cognome.....data.....cl.1^C

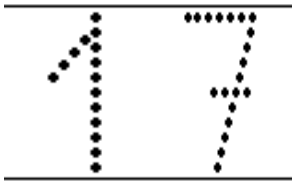	DICIASSETTE diciassette	1 DECINA e 7 UNITA' 1 da e 7 u

La linea dei numeri: aggiungi i numeri 16 e 17

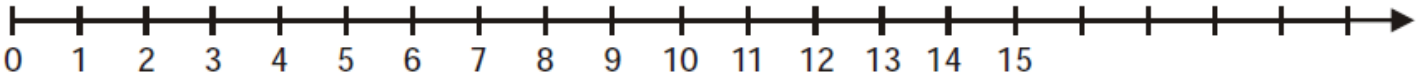

La scatola dei numeri: colora 17 quadretti

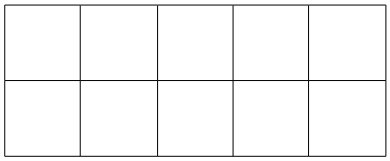

Cosa osservi?.....

.....

Raggruppa per 10 e registra

Il numero 17 è formato da .....decina e .....unità

da	u



Completa l'abaco formando il numero 17

Colora il regolo numero 17

Il numero 17 è formato da .....+.....

Qual è il numero che precede il 17?.....

Conta ed aggiungi gli elementi che mancano per formare 17

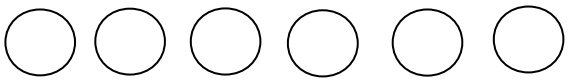

Ora esercitati a scrivere il numero 17 in cifra

17		17		17		17		17		17
17										
17										
17										

Ora esercitati a scrivere il numero 17 in lettera
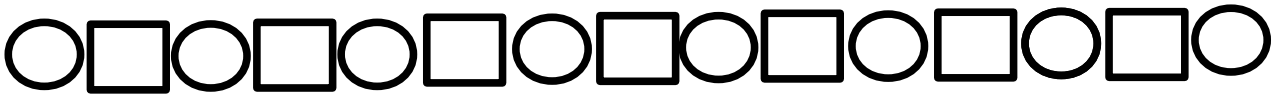
	DICIASSETTE diciassette
17	
17	
17