Cognome.....data.....cl.1^C

16	SEDICI sedici	1 DECINA e 6 UNITA' 1 da e 6 u

La linea dei numeri: aggiungi i numeri 13, 14, 15 e 16

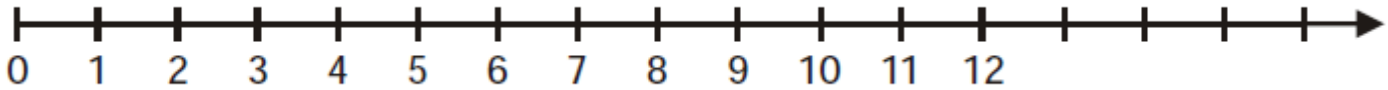

La scatola dei numeri: colora 16 quadretti

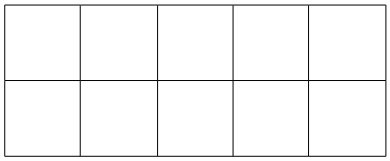

Cosa osservi?.....

.....

Raggruppa per 10 e registra

Il numero 16 è formato da .....decina e .....unità

da	u



Completa l'abaco formando il numero 16

Colora il regolo numero 16

Il numero 16 è formato da .....+.....

Qual è il numero che precede il 16?.....

Conta ed aggiungi gli elementi che mancano per formare 16

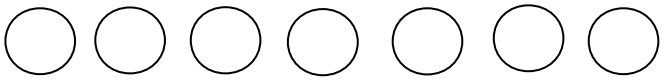

Ora esercitati a scrivere il numero 16 in cifra

16		16		16		16		16		16
16										
16										
16										

Ora esercitati a scrivere il numero 16 in lettera
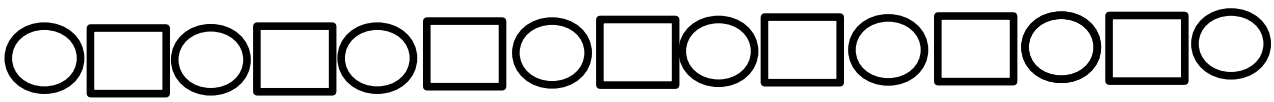
	SEDICI sedici
16	
16	
16