Cognome.....data.....cl.1^C

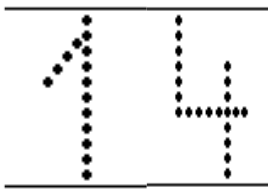	QUATTORDICI quattordici	1 DECINA e 4 UNITA' 1 da e 4 u

La linea dei numeri: aggiungi i numeri 13 e 14

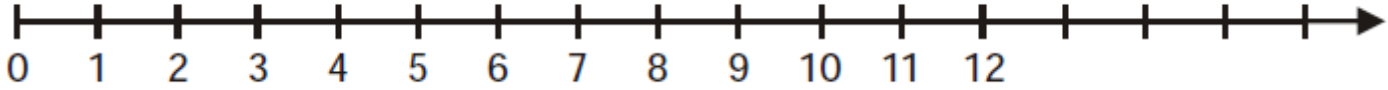

La scatola dei numeri: colora 14 quadretti





Cosa osservi?.....

.....

Raggruppa per 10 e registra

Il numero 14 è formato da .....decina e .....unità

da	u



Completa l'abaco formando il numero 14

Colora il regolo numero 14

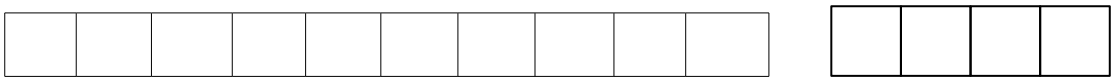

Il numero 14 è formato da .....+.....

Qual è il numero che precede il 14?.....

Conta ed aggiungi gli elementi che mancano per formare 14

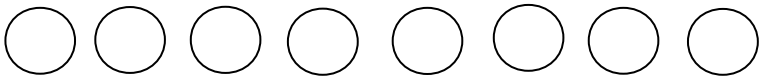

Ora esercitati a scrivere il numero 14 in cifra

14		14		14		14		14		14
14										
14										
14										

Ora esercitati a scrivere il numero 14 in lettera

14	QUATTORDICI quattordici
14	
14	
14	
14	