Cognome.....data.....cl.1^C

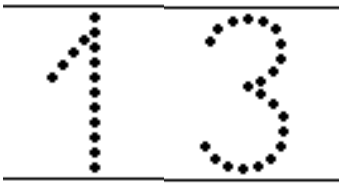	TREDICI tredici	**1 DECINA e** **3 UNITA'** **1 da e 3 u**

La linea dei numeri: aggiungi i numeri 11, 12 e 13

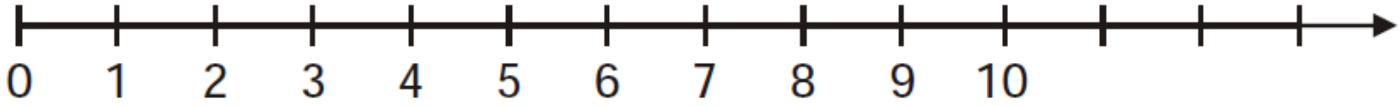

La scatola dei numeri: colora 13 quadretti

Cosa osservi?.....

.....

Raggruppa per 10 e registra

Il numero 13 è formato da .....decina e .....unità

da	u

Completa l'abaco formando il numero 13



Colora il regolo numero 13

Il numero 13 è formato da ……..+……..

Qual è il numero che precede il 13?……..

Conta ed aggiungi gli elementi che mancano per formare 13

Ora esercitati a scrivere il numero 13 in cifra

13		13		13		13		13		13
13										
13										
13										

Ora esercitati a scrivere il numero 13 in lettera

13	TREDICI tredici
13	
13	
13	
13	