Scuola Primaria paritaria “Virginia Agnelli” anno scol. 2015/2016 Data.....	Cognome..... Nome..... cl. 2^ A-B-C	Prova *“in itinere”* di MATEMATICA

VALUTAZIONE.....

1. Metti in colonna, calcola ed inserisci anche il risultato in riga

25 + 4 = _____ 7 + 12 = _____

16 + 11 = _____ 4 + 25 = _____

8 + 21 = _____ 11 + 12 = _____

17 + 2 = _____ 13 + 15 = _____

18 + 11 = _____ 20 + 9 = _____

22 + 6 = _____ 5 + 13 = _____

da	u

+
=

da	u

+
=

da	u

+
=

da	u

+
=

da	u

+
=

da	u

+
=

da	u

+
=

da	u

+
=

da	u

+
=

da	u

+
=

da	u

+
=

da	u

+
=

2. Leggi attentamente i problemi ed indica con una crocetta l'operazione corretta

- Marta ha sfornato una teglia con 15 biscotti. Gli amici ne mangiano 7.

Quanti biscotti rimangono?

☐ Addizione ☐ Sottrazione

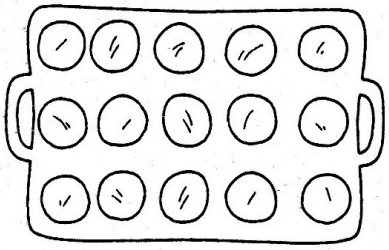



- Nel bosco Mattia raccoglie 8 castagne, Luca ne raccoglie 5.

Quante castagne hanno raccolto in tutto?

☐ Addizione ☐ Sottrazione



- Ieri, sulla spiaggia, Fabiana ha trovato 14 conchiglie. Oggi ne trova altre 4.

Quante conchiglie ha Fabiana in tutto?

☐ Addizione ☐ Sottrazione

3. Leggi le domande ed indica con una crocetta la risposta giusta

- Quale numero manca in questa sequenza?

17	15	13		9	7

☐ 14 ☐ 16 ☐ 11

- Quale delle seguenti addizioni dà come risultato 18?

☐ 9 + 3 ☐ 8 + 10 ☐ 9 + 7

- Qual è la regola di questa sequenza di numeri?

3	5	7	9	11	13

☐ + 1 ☐ + 2 ☐ + 3

- Qual è il segno della seguente operazione?

10 ☐ 10 = 0 ☐ + ☐ –

CORREZIONE E CRITERI DI VALUTAZIONE

1. Metti in colonna, calcola ed inserisci anche il risultato in riga

25 + 4 = 29 7 + 12 = 19

16 + 11 = 27 4 + 25 = 29

8 + 21 = 29 11 + 12 = 23

17 + 2 = 19 13 + 15 = 28

18 + 11 = 29 20 + 9 = 29

22 + 6 = 28 5 + 13 = 18

da	u	
2	5	+
	4	=
2	9	

da	u	
1	6	+
1	1	=
2	7	

da	u	
	8	+
2	1	=
2	9	

da	u	
1	7	+
	2	=
1	9	

da	u	
1	8	+
1	1	=
2	9	

da	u	
2	2	+
	6	=
2	8	

da	u	
	7	+
1	2	=
1	9	

da	u	
	4	+
2	5	=
2	9	

da	u	
1	1	+
1	2	=
2	3	

da	u	
1	3	+
1	5	=
2	8	

da	u	
2	0	+
	9	=
2	9	

da	u	
	5	+
1	3	=
1	8	

2. Leggi attentamente i problemi ed indica con una crocetta l'operazione corretta

- Marta ha sfornato una teglia con 15 biscotti. Gli amici ne mangiano 7.

Quanti biscotti rimangono?

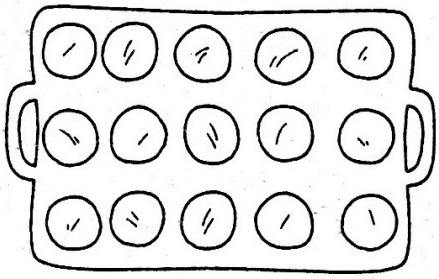

☐ Addizione ☒ Sottrazione



- Nel bosco Mattia raccoglie 8 castagne, Luca ne raccoglie 5.

Quante castagne hanno raccolto in tutto?

☒ Addizione ☐ Sottrazione



- Ieri, sulla spiaggia, Fabiana ha trovato 14 conchiglie. Oggi ne trova altre 4.

Quante conchiglie ha Fabiana in tutto?

☒ Addizione ☐ Sottrazione

3. Leggi le domande ed indica con una crocetta la risposta giusta

- Quale numero manca in questa sequenza?

17	15	13		9	7

☐ 14 ☐ 16 ☒ 11

- Quale delle seguenti addizioni dà come risultato 18?

☐ 9 + 3 ☒ 8 + 10 ☐ 9 + 7

- Qual è la regola di questa sequenza di numeri?

3	5	7	9	11	13

☐ + 1 ☒ + 2 ☐ + 3

- Qual è il segno della seguente operazione?

10 ☐ 10 = 0 ☐ + ☒ –

CRITERI per 19 richieste

19 esatte	18 esatte	17 esatte	16 esatte	15 esatte	14 esatte	13 esatte	12 esatte	11 esatte	10 esatte	9 esatte
10	**10meno**	**9,5**	**9**	**8,5**	**8**	**7,5**	**7**	**6**	**5,5**	**5**

0 errori	1 err	2 err	3err	4 err	5err	6 err	7 err	8 err	9 err	10 err
10	**10meno**	**9,5**	**9**	**8,5**	**8**	**7,5**	**7**	**6**	**5,5**	**5**

www.maestramg.altervista.org