Scuola Primaria paritaria "VIRGINIA AGNELLI" Anno scol. 2015/16 Data.....	Cognome..... Nome..... Ordine alfabetico n°.....Classe 2^ A-B-C	PROVA in USCITA MATEMATICA "MAT1"

Valutazione.....

1) Calcola in riga le seguenti moltiplicazioni e divisioni con e senza resto:

2 x 7 =.....

3 x 8 =.....

4 x 9 =.....

5 x 6 =.....

6 x 7 =.....

7 x 10=.....

8 x 7 =.....

9 x 8 =.....

1 x 0 =.....

18 : 2 =.....

25 : 5 =.....

48 . 8 =.....

27 : 3 =.....

63 : 7 =.....

18 : 4 =.....

39 : 6 =.....

40 : 9 =.....

53 : 6 =.....

2) Calcola in colonna e riporta il risultato:

75 + 18 =.....
64 + 29 =.....
90 - 64 =.....
71 - 35 =.....
32 x 3 =.....
13 x 7 =.....

da	u

=

da	u

=

da	u

=

da	u

=

da	u

=

da	u

=

3) Completa :

4 da e 6u =.....

5 da e 8u =.....

9 da =.....

4) Riordina in ordine crescente

27 - 95 - 59 - 6 - 28 - 77 - 14

.....

5) Riordina in ordine decrescente

15 - 27 - 67 - 84 - 98 - 0 - 89

.....

6) Risolvi il seguente problema

In un ristorante ci sono 19 tavoli, ogni tavolo ha 4 sedie.

<u>Quante sedie ci sono in tutto in quel ristorante?</u>

7) Individua le figure e colorale secondo le indicazioni

- Cerchi ⟶ giallo
- Quadrati ⟶ verde
- Triangoli ⟶ rosso
- Rettangoli ⟶ azzurro

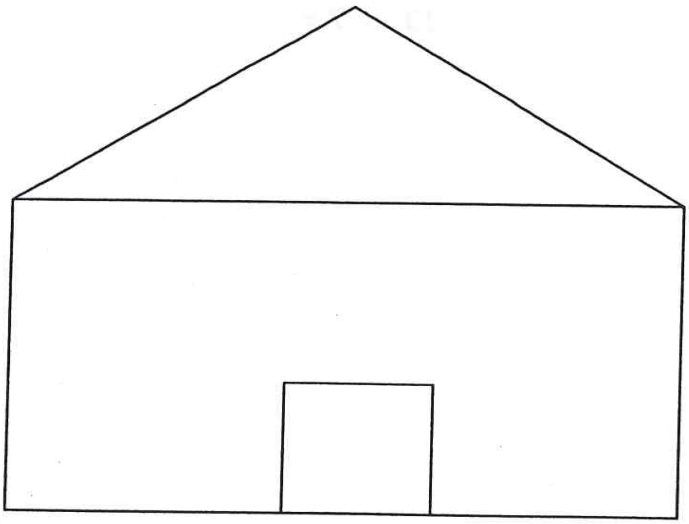

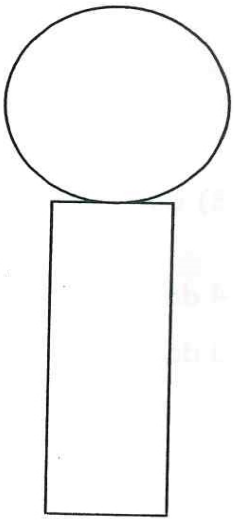

CORREZIONE E CRITERI DI VALUTAZIONE

1) Calcola in riga le seguenti moltiplicazioni e divisioni con e senza resto:

2 x 7 = 14	18 : 2 = 9
3 x 8 = 24	25 : 5 = 5
4 x 9 = 36	48 : 8 = 6
5 x 6 = 30	27 : 3 = 9
6 x 7 = 42	63 : 7 = 9
7 x 10 = 70	18 : 4 = 4 r2
8 x 7 = 56	39 : 6 = 6 r3
9 x 8 = 72	40 : 9 = 4r4
1 x 0 = 0	53 : 6 = 8r5

18

2) Calcola in colonna e riporta il risultato:

75 + 18 = 93	71 - 35 = 36
64 + 29 = 93	32 x 3 = 96
90 - 64 = 26	13 x 7 = 91

6

3) Completa :

4 da e 6u = 46

5 da e 8u = 58

9 da = 90

15u = 15

4

4) Riordina in ordine crescente

27 - 95 - 59 - 6 - 28 - 77 - 14

6 - 14 - 27 - 28 - 59 - 77 - 95 1

5) Riordina in ordine decrescente

15 - 27 - 67 - 84 - 98 - 0 - 89

98 - 89 - 84 - 67 - 27 - 15 - 0 1

6) Risolvi il seguente problema

In un ristorante ci sono 19 tavoli, ogni tavolo ha 4 sedie.

Quante sedie ci sono in tutto in quel ristorante?

Risolvo

Dati: 19 tavoli — 1 DATI

4 sedie ogni tavolo

? = sedie totali (in tutto) — 1 OPERAZIONE

Operazione: 19 x 4 = 76 sedie

Risposta — 1 RISPOSTA

In quel ristorante ci sono in tutto 76 sedie.

7) Individua le figure e colorale secondo le indicazioni

- Cerchi → giallo
- Quadrati → verde
- Triangoli → rosso
- Rettangoli → azzurro



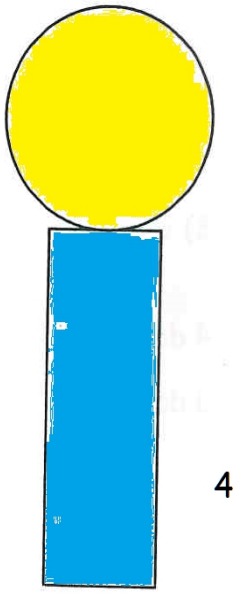

4

CRITERI per 37 richieste – mezzi voti -(corretta)

37 esatt	36 esatt	35-34 esatt	33-32 esatt	31-30 esatt	29-28 esatt	27 esatt	26-25 esatt	24-23 esatt	22-21 esatt	20 esatt	19 esatte
10	**10meno**	**9,5**	**9**	**8,5**	**8**	**7,5**	**7**	**6,5**	**6**	**5,5**	**5**

0 err	1 err	2-3 err	4-5 err	6-7 err	8-9 err	10 err	11-12 err	13-14 err	15-16 err	17 err	18 e più er
10	**10meno**	**9,5**	**9**	**8,5**	**8**	**7,5**	**7**	**6,5**	**6**	**5,5**	**5**