Cognome.....data.....cl.2^C

ESERCIZI

1. Quale numero corrisponde a 1 decina? Cerchialo

1 10 20 01 101

2. Quale numero corrisponde a 2 decine? Cerchialo

2 02 20 202 10

3. In quale gruppo i numeri sono stati scritti in ordine dal minore al maggiore? Colora il riquadro

5	**27**	**38**

12	**21**	**45**

24	**22**	**12**

45	**32**	**23**

4. Quale tra i seguenti numeri è minore? Crocetta il quadratino

☐ sei ☐ dieci ☐ quindici ☐ cinque

5. Con quale operazione calcoli il numero di rettangoli bianchi? Cerchiala

4 + 5=
9 – 4=
9 – 5 =

6. Con quale operazione calcoli il numero di rettangoli bianchi? Cerchiala

8 – 3 =
8 – 5 =
3 + 5 =

7.Con quale operazione calcoli il numero dei vasetti aperti? Cerchiala



7 – 4 = 4 + 3 = 3 + 4 = 7 – 3 =

8. Con quale operazione calcoli quanti oggetti sono sul tavolo? Cerchiala

7 – 2 = 5 + 2 = 7 – 5 = 2+5 =



9. Con quale operazione calcoli quante matite ci sono nello zaino?
Cerchiala 12 + 8 = 8 + 12 = 20 – 8 = 20 - 12=

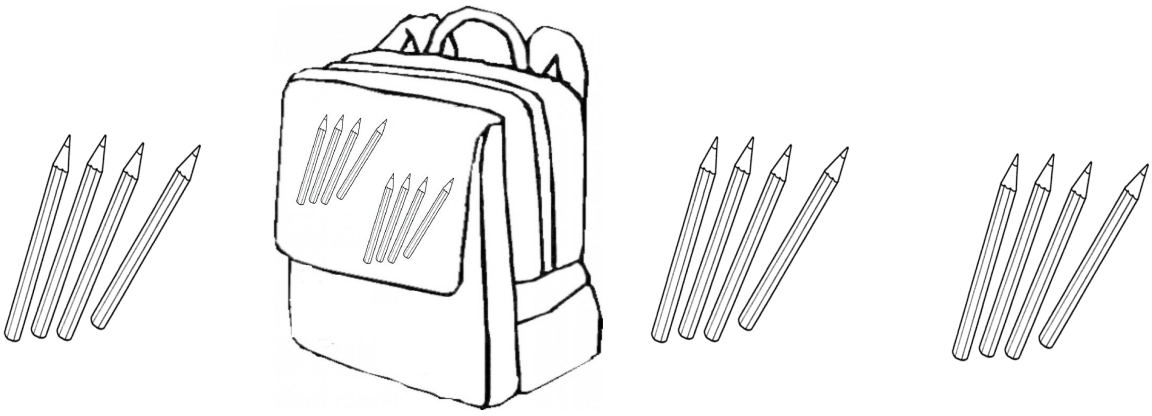

10.In quale gruppo i numeri sono stati scritti in ordine dal maggiore al minore? Colora il riquadro

54	**45**	**34**
46	**36**	**26**

45	**34**	**24**
34	**43**	**53**

11. Con quale operazione calcoli quante mele ci sono sull'albero? Cerchiala

6 + 3 =
3 + 6 =
9 – 6 =
9 – 3 =

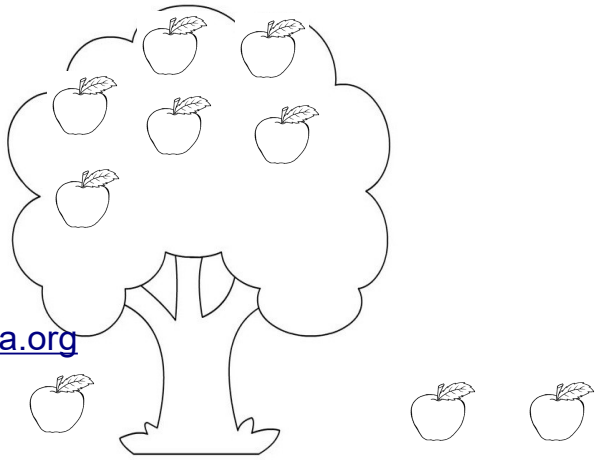

www.maestramg.altervista.org