Scuola Primaria paritaria "VIRGINIA AGNELLI" Anno scol. 2015/'16 Data……	Cognome…… Nome…… Ordine alfabetico n°…… Classe 2^ C	**PROVA *"in itinere"*** **di** **Matematica**

www.maestramg.altervista.org

Cappuccetto non è più una bambina che vive vicino a un bosco. Ora vive in una grande città. Ogni settimana va a trovare la sua nonna e le porta un cesto di cose che possono farle piacere.
Questa settimana Cappuccetto e la sua mamma hanno preparato 18 pere e 6 mele.

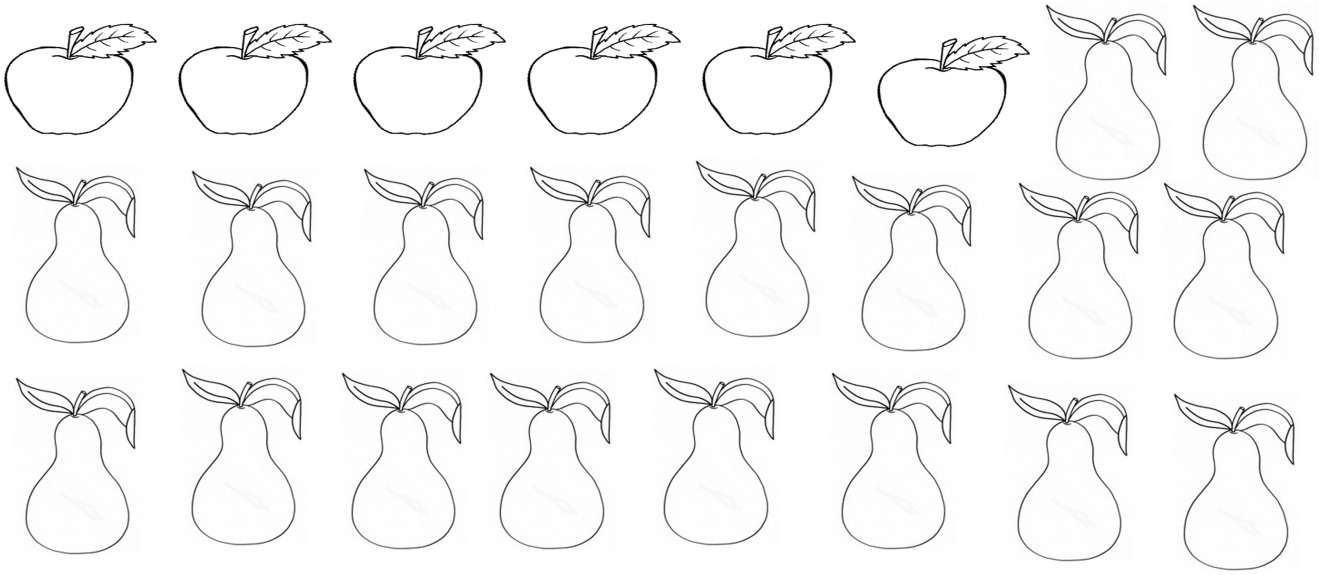

Quanti frutti?.....

Nel cestino hanno messo anche delle bustine per preparare il tè. Una confezione ne contiene 30, ma sono troppe! Meglio toglierne 8. Quante bustine restano?.....

Disegna le bustine della confezione e togline 8

Ecco, poi, i biscotti con la marmellata, appena sfornati sono 42, ma 6 si sono rotti.

Quanti biscotti interi?.....



La nonna per passare il tempo lavora a maglia. Le occorrono 34 gomitoli di lana rossi, 10 gomitoli gialli, 2 gomitoli blu. Quanti gomitoli in tutto?.....

Se la nonna ne possiede già 10, di quanti gomitoli avrà ancora bisogno?.....

Il cesto è pronto! Cappuccetto prende la metropolitana e sale sul primo vagone, dietro il conducente e pensa...

“se la mia nonna ha 65 anni ed io ne ho 8, qual è la differenza d'età?.....

Il viaggio è lungo e per ingannare il tempo, Cappuccetto conta il numero dei passeggeri che salgono e scendono e così esegue quattro addizioni e quattro sottrazioni in colonna perchè alcuni calcoli richiedono il riporto ed il prestito

35 + 26 =.....

28 + 36 =.....

42 + 15 =.....

7 + 27=.....

68 – 17 =.....

56 – 28 =.....

44 – 39 =.....

53 – 9 =.....

da	u

+ =

da	u

+ =

da	u

+ =

da	u

+ =

da	u

– =

da	u

– =

da	u

– =

da	u

– =

Poi Cappuccetto scrive alcuni numeri e si diletta a mettere il simbolo adatto e cioè = uguale, < minore, > maggiore

35	☐	47	50	☐	29	48	☐	36
32	☐	32	27	☐	70	34	☐	41
43	☐	34	21	☐	31	45	☐	45

Sull'ultimo vagone è salito anche il lupo, travestito per non farsi riconoscere. Alla fermata opportuna, Cappuccetto scende. Il lupo la insegue ma, amante dei numeri, si incanta, guarda i vagoni e scopre i numeri mancanti. Così Cappuccetto riesce ad arrivare dalla nonna.

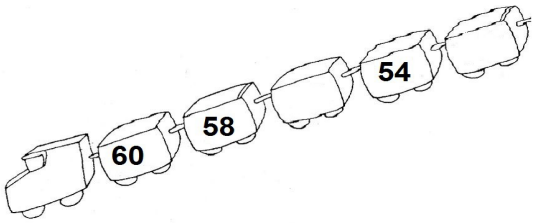

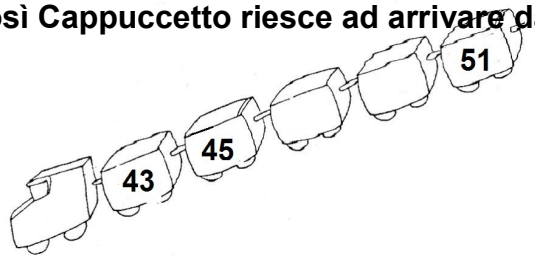

CORREZIONE E CRITERI DI VALUTAZIONE

Cappuccetto non è più una bambina che vive vicino a un bosco. Ora vive in una grande città. Ogni settimana va a trovare la sua nonna e le porta un cesto di cose che possono farle piacere. Questa settimana Cappuccetto e la sua mamma hanno preparato 18 pere e 6 mele.

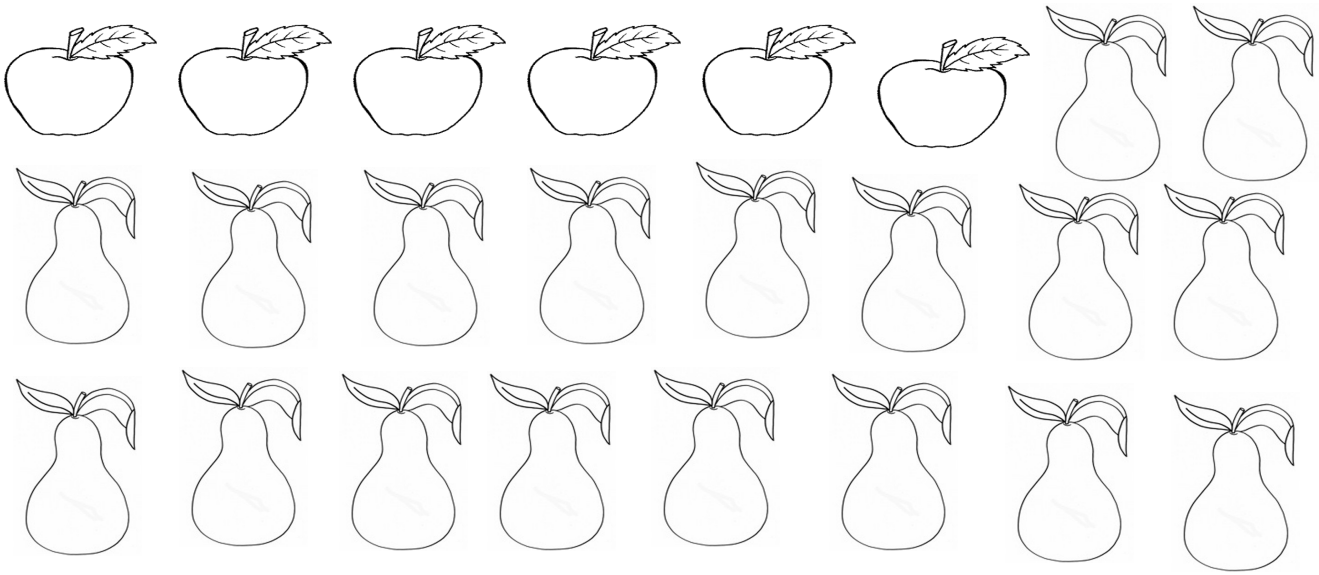

Quanti frutti?.....24 frutti..... **1punto**

Nel cestino hanno messo anche delle bustine per preparare il tè. Una confezione ne contiene 30, ma sono troppe! Meglio toglierne 8. Quante bustine restano?....30-8 = 22 bustine **1punto**

Disegna le bustine della confezione e togline 8

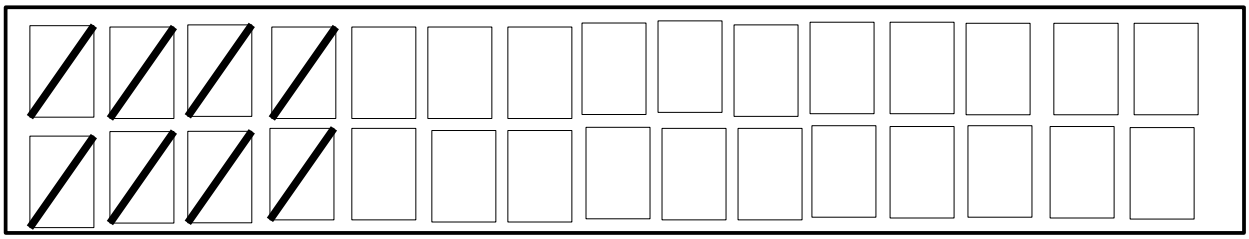

1p

Ecco, poi, i biscotti con la marmellata, appena sfornati sono 42, ma 6 si sono rotti.

Quanti biscotti interi?.....42 – 6 = 36 **1p**



La nonna per passare il tempo lavora a maglia. Le occorrono 34 gomitoli di lana rossi, 10 gomitoli gialli, 2 gomitoli blu. Quanti gomitoli in tutto?.....46 gomitoli **1p**

Se la nonna ne possiede già 10, di quanti gomitoli avrà ancora bisogno?...36 gomitoli **1p**

Il cesto è pronto! Cappuccetto prende la metropolitana e sale sul primo vagone, dietro il conducente e pensa...

“se la mia nonna ha 65 anni ed io ne ho 8, qual è la differenza d'età? 65 – 8 = 57 anni di differenza

1punto

Il viaggio è lungo e per ingannare il tempo, Cappuccetto conta il numero dei passeggeri che salgono e scendono e così esegue quattro addizioni e quattro sottrazioni in colonna perchè alcuni calcoli richiedono il riporto ed il prestito

35 + 26 =.....61.....

28 + 36 =.....64.....

42 + 15 =.....57.....

7 + 27=.....34.....

68 – 17 =.....51

56 – 28 =.....28

44 – 39 =.....5

53 – 9 =.....44

da	u	
3	5	+
2	6	=
6	1	

da	u	
2	8	+
3	6	=
6	4	

da	u	
4	2	+
1	5	=
5	7	

da	u	
	7	+
2	7	=
3	4	

da	u	
6	8	–
1	7	=
5	1	

da	u	
5	6	–
2	8	=
2	8	

da	u	
4	4	–
3	9	=
-	5	

da	u	
5	3	–
	9	=
4	4	

8 punti

Poi Cappuccetto scrive alcuni numeri e si diletta a mettere il simbolo adatto e cioè = uguale, < minore, > maggiore

35 < 47

32 = 32

43 > 34

50 > 29

27 < 70

21 < 31

48 > 36

34 < 41

45 = 45

9 punti

Sull'ultimo vagone è salito anche il lupo, travestito per non farsi riconoscere. Alla fermata opportuna, Cappuccetto scende. Il lupo la insegue ma, amante dei numeri, si incanta, guarda i vagoni e scopre i numeri mancanti. Così Cappuccetto riesce ad arrivare dalla nonna.

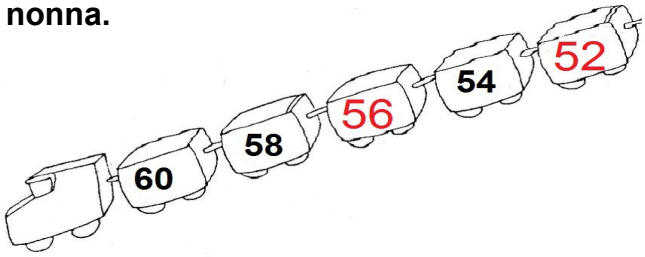

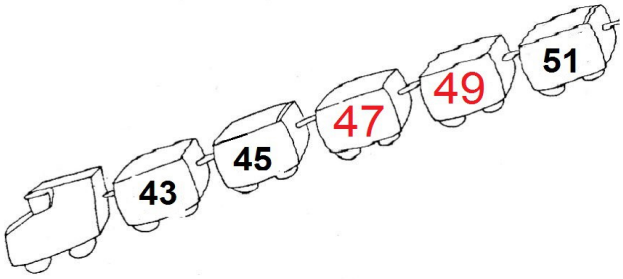

4punti

CRITERI per 28 richieste(mezzi voti)

28 esat	27 esat	26 esat	25 esat	24-23 esat	22-21 esat	20 esat	19 esat	18-17 esat	16 esat	15 esatte	14 esatte
10	**10meno**	**9,5**	**9**	**8,5**	**8**	**7,5**	**7**	**6,5**	**6**	**5,5**	**5**

0 errori	1 err	2 err	3 err	4-5 err	6-7 err	8 err	9 err	10-11 err	12 err	13 err	14e più err
10	**10meno**	**9,5**	**9**	**8,5**	**8**	**7,5**	**7**	**6,5**	**6**	**5,5**	**5**

www.maestramg.altervista.org