Cognome ….....data.....cl.2^C

LA DIFFERENZA

1. Confronta le due lunghezze, colora la differenza e poi scrivi la sottrazione corrispondente.

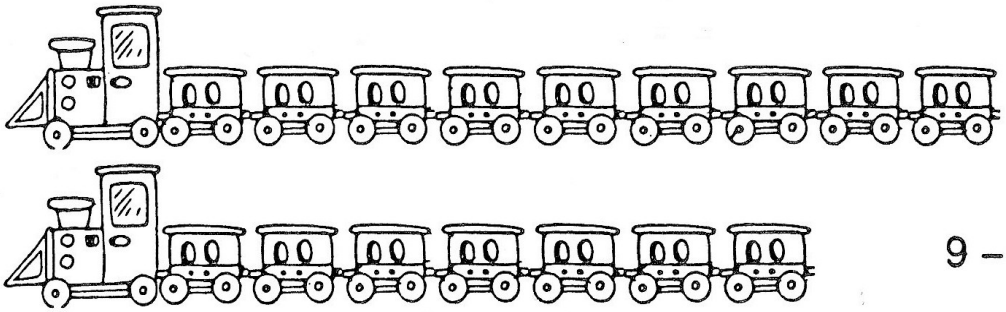

9 – ..... = ...

2. Confronta le due altezze, colora la differenza e poi scrivi la sottrazione corrispondente.

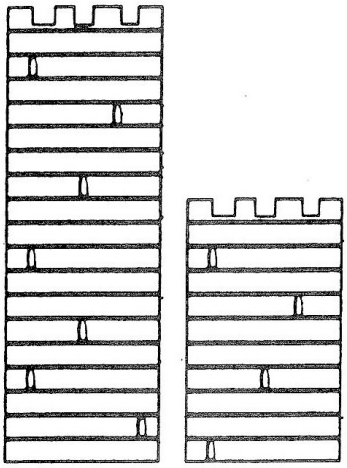

..... – ..... = ...

3. Colora la differenza tra le quantità e scrivi le sottrazioni corrispondenti



..... – ..... = ...



..... – ..... = ...

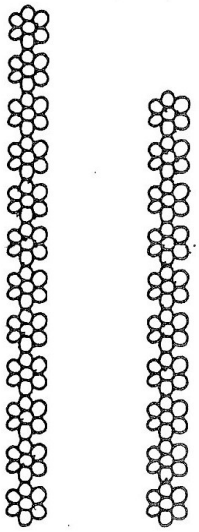

..... – ..... = ...

PROBLEMI

Leggi attentamente i testi e risolvi indicando l'operazione, il calcolo e la risposta

1. Ieri sono andato in cartoleria e ho comprato 3 quaderni a quadretti e 5 a righe. Quanti quaderni ho comprato in tutto?

   Esegui l'operazione: 3..... 5 = ...

   Rispondi alla domanda: .....

2. La mamma ha comprato un sacchetto di dolci: 3 ciambelle, 4 meringhe, 2 cannoli. Quanti sono in tutto i dolci contenuti nel sacchetto?

   Esegui l'operazione: 3..... 4..... 2 = ...

   Rispondi alla domanda: .....

3. Sugli scaffali della libreria ci sono 20 libri, ma 8 non sono di Angela. Quanti sono i libri di Angela?

   Esegui l'operazione: 20..... 8 = ...

   Rispondi alla domanda: .....

4. In una gabbia avevo messo 7 uccellini, ma 4 sono volati via passando attraverso le sbarre. Quanti uccellini mi sono rimasti?

   Esegui l'operazione: 7..... 4 = ...

   Rispondi alla domanda: .....

5. In un cestino c'erano 6 pezzi di formaggio. Un topolino ne ha portati via 2: quanti pezzi di formaggio sono rimasti?

   Esegui l'operazione: 6..... 2 = ...

   Rispondi alla domanda: .....